5. Jaza nafasi wazi
   i. Zipi ni athari za uharibifu wa mazingira?
   a. _____
   b. _____
   ii. Pendekeza nishati mbadala zinazoweza kutumika badala ya kuni na mkaa a. _____
   b. _____
6. **Jibu maswali yafuatayo**
   i. Watalii walianza kutetemeka baada ya kufika katika kilele cha mlima ambapo kipima joto kilisoma nyuzi 410 za Fahrenheit. Kiwango hicho ni sawa na nyuzi joto ngapi za Sentigredi?_____
   ii. Eleza ni kwa namna gani ongezeko la joto hupelekea kuongezeka kwa kina cha bahari?_____
7. **Soma picha ifuatayo kisha jibu maswali**

Maswali SEHEMU C: (ALAMA 10)



   i. Shughuli gani inaweza kufanyika katika picha hapo juu?
   _____
   ii. Shughuli hiyo ina faida gani katika uchumi wa taifa letu?
   a. _____
   b. _____
   iii. Picha hiyo imepigwa katika eneo gani?
   _____
   iv. Rasilimali zilizooneshwa kwenye picha hiyo juu zinaweza kukumbwa na changamoto gani?
   a. _____
   b. _____
   v. Nini kifanyike ili kutunza rasilimali hizo kwa ajili ya vizazi vijavyo? a. _____
   b. _____

MKOA WA KAGERA
MTIHANI WA JARIBIO LA MWEZI APRIL 2026
DARASA LA VII
MAARIFA YA JAMII NA STADI ZA KAZI

Jina : _____ ***Jina la Shule:*** _____

Mkoa: _____ ***Wilaya:*** _____

MAELEKEZO KWA MTAHINIWA: **Muda: Saa 1.30**

1. Karatasi hii ina sehemu A,B na C yenye jumla ya maswali saba
2. Jibu maswali yote katika kila sehemu
3. Simu ya mkononi au kikokotozi haviruhusiwi kwenye chumba cha mtihani

SEHEMU A: ALAMA 20

1. Chagua jibu sahihi kisha andika herufi yake katika kisanduku

   i. Yupi kati ya wafuatao alikuwa Waziri Mkuu wa Jamhuri ya Muungano wa Tanzania wakati wa utawala wa Rais Benjamin W. Mkapa?
   A. Kassim M. Majaliwa B. Mizengo P. Pinda
   C. Cleopa D. Msuya D. Frederick T. Sumaye
   E. Edward M. Sokoine [ ]

   ii. Dunia hutumia masaa mangapi kujizungusha katika 900?
   A. 8 B. 10 C. 6 D. 12 E. 20 [ ]

   iii. Majanga ya moto husababisha athari kwa watu na mali zao. Nini husababisha majanga hayo katika makazi ya watu?
   A. Matumizi mabaya ya umeme na gesi C. Mlipuko wa volcano na uwindaji
   B. Radi na joto kali D. Radi na uvutaji sigara
   E. Radi na uwindaji [ ]

   iv. Herufi gani haioanishi chama cha siasa na nchi kilichopigania uhuru wakati wa ukoloni?A. FRELIMO-Msumbiji B. MAUMAU-Kenya
   C. UNIP-ZambiaD. TANU-Tanganyika E. CPP-Ghana[ ]

   v. Ipi ni kazi ya shajala la somo darasani?
   A. Kuweka mabegi ya wanafunzi B Kuweka kalamu na vitabu C. Kutunza ramani za ukutani
   D. Kutunza kazi za wanafunzi
   E. Kutunza kumbukumbu za dijitali [ ]

   vi. Upepo huvuma kutoka maeneo yenye mgandamizo mkubwa wa hewa kwenda kwenye maeneo yenye mgandamizo mdogo wa hewa. Maeneo yenye mgandamizo mkubwa wa hewa huwa na sifa gani kati ya hizi?
   A. Yana joto kubwa B. Yana mvua kubwa
   C. Yana mvua kidogo D.Yana mwinuko kidogo
   E. Yana joto kidogo [ ]

vii. Ipi ni sababu ya kijamii iliyopelekea muingiliano kati ya Tanzania na Asia mnamo karne ya 9 na 10?
A. Kueneza dini ya Kiislamu B. Kufanya biashara
C. Kutafuta njia ya kwenda India D.Kueneza lugha ya Kiswahili E. Kuanzisha makoloni [ ]

viii. Njia ipi inafaa kusafirisha maji, mafuta ghafi na gesi asilia kutoka sehemu moja kwenda nyingine? [ ]
A. Malori makubwa B. Meli C. Treni D. Ndege E. Bomba

ix. Azimio la Arusha lilitangazwa rasmi mnamo tarehe 5 Februari, 1967. Lililenga nini?
A. Kutaifisha rasilimali za umma
B. Kuukomboa uchumi dhidi ya unyonyaji
C. Kuifanya TANU kuwa chama tawala
D. Kuzikomboa nchi za Afrika kutokaukoloni
E. Kubinafsisha rasilimali zote za umma [ ]

x. Jumuiya ya Afrika Mashariki ilivunjika mwaka gani?
A. 1967 B. 2000 C. 1978 D. 1999 E. 1977 [ ]

xi. Matunda gani yanaweza kukamuliwa ili kutengeneza juisi?
A. machungwa na malimao B. maparachichi na mapapai
C. Ukwaju na fenesi D. Maembe na maparachichi
E. Ubuyu na ukwaju [ ]

xii. Neno lipi lina maana ya kupamba kipande cha kitambaa kwa kutumia nyuzi za rangitofauti?
A. Kung'arishaB. Kuremba C. Kuweka kiraka D.Kushona
E. Kudarizi [ ]

xiii. Lipi kati ya matendo yafuatayo hupelekea mpangilio mbaya wa rangi katika nguo?A. kuzitenganisha wakati wa kuloweka
B. kuzifua wakati wa usiku C. Kutozitenganisha wakati wa kufua D. Kufua kwa maji ya chumvi
E. Kusuuza baada ya kufua [ ]

xiv. Njia ya kuchemsha hupika vyakula kwa kutumia maji mengi. Chakula gani kati ya hivi hakipikwi kwa njia hiyo?
A. nyama B. viazi C. uji D. wali E. mkate [ ]

xv. Maudhui huhusisha nini katika maigizo?
A. ujumbe unaotolewa kwa hadhira B. vitu anavyotumia mwigizaji C. Mahali igizo linapofanyika D. Idadi ya waigizaji
E. Mandhari ya igizo [ ]

2. **Oanisha jumuiya za kimataifa ambazo Tanzania ni mwanchama na makao makuuyake**

ORODHA A

i. Jumuiya ya Afrika Mashariki [ ]
ii. Jumuiya ya Maendeleo Kusini mwa Afrika [ ]
iii. Umoja wa Afrika [ ]
iv. Jumuiya ya Madola [ ]
v. Umoja wa Mataifa

Orodha B

A. London, Uingereza
B. Geneva, Uswiswi
C. New York, Marekani
D. Johannesburg, Afrika Kusini
E. Arusha, Tanzania
F. Addis Ababa, Ethiopia
G. Rome, Italia
H. Gaborone, Botswana

SEHEMU B: ALAMA 20

3. Jibu maswali yafuatayo

i. Angahewa limeundwa na jumla ya matabaka manne, ambayo ni; angastrato,Angajoto, Angatropo na AngamesoPangilia matabaka hayo kuanzia la chini mpaka la ju

a. _____
b. _____
c. _____
d. _____

ii. Tabaka la Ozoni lina kazi gani?_____

iii. Kila mstari wa longitude huigawa dunia katika sehemu kuu mbili.Ni latitudo gani huigawa dunia katika sehemu mbili?
_____

4. Jibu maswali yafuatayo

i. Ni vijiti gani ambavyo binadamu wa kale alivitumia kutengeneza moto wakati wa
Zama za Mawe za Kati?

a. _____
b. _____

ii. Wanafunzi wa Darasa la VII wanapanga kutembelea vituo vya kihistoria ambavyo vitawasaidia kujifunza athari za vita vya kikoloni. Je, watatembelea maeno gani?

a. _____
b. _____

iii. Ni madini gani yalihitajika kwa wingi barani Ulaya kama alama ya nguvu na kielelezo
cha biashara wakati wa muingiliano baina ya Ulaya na Tanganyika?

a. _____
b. _____

5. **Andika majibu sahihi katika nafasi zilizotolewa .**

i. Taja faida mbili za kuwa na wimbo wa shule
a)_____
b)_____

ii. Elza kwa ufupi vitendo viwili katika jamii vinavyokiuka haki za mtoto
a)_____
b)_____

iii. Wabunge wa Jamhur ya muungano wa Tanzania hupatikana kwa njia mbalimbali. Taja njia mbili
a)_____
b)_____

iv. Bainisha matendo mawili yanayosaidia kuepukana na tabia hatarishi katika jamii
a)_____
b)_____

v. Elimu ya utunzaji wa mazingira inpaswa kuwa ya kudumu. Nani anajukumu la utoaji elimu hiyo ? Taja wawili.
a)_____
b)_____

SEHEMU C: (ALAMA 10)
Jibu maswali yote

6. Andika maelezo mafupi kutokana na dhana zifuatazo

i. Mila _____
_____

ii. Desturi_____
_____

iii. Utamanduni _____
_____

iv. Taja mambo mawili yanayoonesha kuwa Tanzania ni nchi ya kidemokrasia
a)_____
b)_____

v. Bainisha misingi mwili ya demokrasia ambayo Tanzania inafuata kama nch ya kidemokrasia
a)_____
b)_____

MKOA WA KAGERA
MTIHANI WA JARIBIO MWEZI APRIL 2026
DARASA LA VII
URAIA NA MAADILI

AS

Jina : _____ _____ ***Jina la Shule:*** _____

Mkoa: _____ ***Wilaya:*** _____

MAELEKEZO KWA MTAHINIWA:
1. Karatasi hii ina sehemu **A,B** na **C** yenye jumla ya maswali **sita**
2. Jibu maswali **yote** katika kila sehemu
3. Simu ya mkononi au kikokotozi haviruhusiwi kwenye chumba cha mtihani

Muda: Saa 1.30

SEHEMU A: (ALAMA 20)

1. Chagua herufi ya jibu sahihi kisha jaza kwenye kisanduku

(i) Watu katika jamii waliopungukiwa na mahitaji muhimu kama vile chakula, malezi, mavazi, fedha au huduma huitwaje?
a) maskini b) Wahanga c) Wahitaji d) Wategemezi
e) Wenye mahitaji maalumu [ ]

ii. UKiukwaji wa sheria na upotoshwaji wa haki ni miongoni mwa madhara ya kitu gani? a) Rushwa b) Utandawazi
c) Utamanduni d) Usawa wa kijinsiae) utawala bora[ ]

iii. Katika jamii iliyostaarabika watu hujiheshimu na kujikinga na mambo yanayoweza kuwaletea madhara. Je kitendo hicho huitwaje? a) Kuwapenda wengine b) kujijali
c) kwajali wengine d) kujipenda e) kujiamini [ ]

iv. Ni kwa namna gani demokrasia naweza kudumishwa katika jamii zetu? a) serikali kutoa huduma bora kwa jamii
b) wazazi peke yao kuwa watoa maamuzi katika familia
c) wazazi kuwaruhusu watoto wao kucheza
d)Watoto wote kupewa nafasi ya kupata elimu bila kujali jinsi e) kuchagua viongozi wetu wa kutuongoza [ ]

v. Mwalimu mkuu huwa hapendi kumuachia simu yake mtu yeyote . Unafikiri ni kwa sababu gani?
a) Anaepuka gharama za vifurushi b) hapendi ushirikiano
c) ni mchoyo d) anaepuka kuvunja sheria ya makosa ya mtandao e) simu yake ni ya gharama sana [ ]

vi. Mambo gani huashiria uwazi katika kijiji au mtaa unaoishi
a) uwepo wa wa halmashauri ya kijiji
b) uwepo wa viongozi waliochaguliwa na wananchi
c) Uwepo wa vyama vya upinzani
d) Ushirikiano miongoni mwa wanajamii [ ]
e) Matumizi sahihi ya ubao wa matangazo na sanduku la maoni

vii. Ipi kati ya alama za taifa zifuatazo huonesha vyombo vya moto vilivyosajiliwa hapa nchini kama vile magari na pikipiki? a) Bendera ya taifa b) nembo ya taifa[ ]
c) bendera ya Rais d) mwenge e) Wimbo wa taifa

viii. Ni njia zipi zinaweza kutumika kwa haraka kuelimisha jamii kuhusu umuhimu wa kutoa misaada kwa wahitaji
a) televisheni, redio na mitandao ya kijamii
b) semina , mikutanoya hadara na vipeperushi
c) vipeperushi na semina
d) redio ma mikutano ya hadhara na mitandao
e) vipeperushi tu [ ]

ix. Yupi kati ya viongozi wafuatao husimama shughuli za serikali bungeni ? a) waziri mkuu b) spika wa bunge
c) katibu wa bunge d) Mwanasheria mkuu
e) makamu wa Rais [ ]

x. Sheria ambayo haijapatiwa saini na Rais inaitwaje?
a) Mswada b0 rasimu c) bajeti d) mkataba e) katiba[ ]

2. **Oanisha maelezo yahusuyo wahitaji katika jamii katika Orodha A na dhana zinazohusiana na wahitaji katika Orodha B kwa kuandika herufi ya jibu sahihi katika nafasi ya majibu uliyotengewa.**

Orodha A

i. Ubinadamu,Upendo na heshima [ ]
ii. Vyakula, mavazi, huduma, za afya vifaambalimbali na makazi [ ]
iii. Njia za kutoa elimu kwa wahitaji [ ]
iv. Wahitaji katika jamii [ ]
v. Huduma ya kisheria inayotolewa kwa mhitaji bila malipo [ ]

Orodha B

A: Watoto yatima na wazee
B: Mabango na vipeperushi
C: Mitandao ya kijamii
D: Misaada kwa wahitaji
E: Msada wa kisheria
F: utu
G: Huduma ya kisheria

3. **Jibu maswali katika kipengele(a-e) kwa kuchagua maneno sahihi kutoka kwenye kisanduku na kuyaandika katika nafasi iliyotolewa**

Mkuu wa wilaya, mwalimu wa taaluma ,mwenge wa uhuru, mwalimu mkuu, utamanduni, mkurungezi wa halmashauri

i. Alama ipi hutumika kuitambulisha jamhuri ya muungano wa Tanzania kwa mataifa mengine _____
ii. Kiongozi yupi wa kamati ya shule ana jukumu la kuratibu vikao vyote vya kamati ya shule_____
iii. Mfumo wa maisha unaounganisha watu kama taifa moja hujulikana kama _____
iv. Kiongozi yupi katika ngazi ya wilaya husimamia masuala yote ya ulinzi na usalama katika wilaya?_____
v. Nani ana wajibu wa kusimamia mapato na matumizi ya fedha katika wilaya ? _____

SEHEMU B: (ALAMA 20)

Jibu maswali yote katika sehemu hii

4. Kamilisha jedwali lifuatalo la muundo wa serikali ya jamhuri ya muungano wa Tanzania

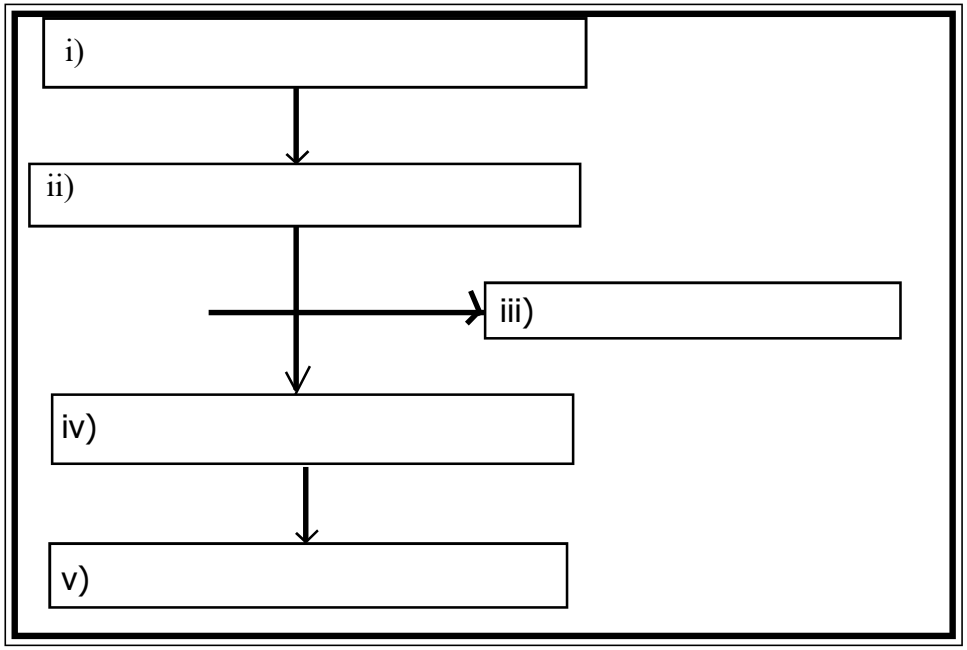

SEHEMU C: (ALAMA 10)

6. Soma kifungu cha habari kifuatacho kisha jibu maswali yanayofuata

Dawa takribani za aina zote huathiri miili yetu namna inavyofanya kazi, hivyo hatuna budi kuzitumia kwa uangalifu . Matumizi mabaya ya dawa husababisha matatizo mfano shuleni, nyumbani kwani mtumiaji anaweza kuvunja sheria za jamii na nchi. Aidha, dawa haramu kama vile bangi, kokeini na heroini ni hatari zaidi. Matumizi mabaya ya dawa ni yale yasiyolenga kuboresha afya ya mtu .Matharani, mtu anatumia dawa bila kushauriwa na mtaalamu au anagawa dawa kwa mgonjwa mwingine bila kufuata vipimo vya kitaalamu. Pombe ni kinywaji ambacho kama kikutumiwa vibaya huleta madhara makubwa, mfano , mtu aliyelewa kupita kiasi hushindwa kujimudu na huweza kusababisha muhali, ajali sawa na mtumiaji wa dawa kama bangi, kokeini na heroini . Dawa siku zote ni nzuri kama zitatumika kwa malengo mazuri, kufuata vipimo na ushauri wa wataalamu.Wataalamu hawana budi kuwaelimisha watumiaji faida na hasara za kila dawa wanazotumia , vinginevyo dawa tunazotumia nyingi ni hatari kwa afya zetu. Suala la msingi la kuzingatia ni kwamba , dawa hazipo kwa ajili ya kuburudisha watu bali kwa matibabu tu . Hivyo tuwe makini kwani "mzaha mzaha mwisho hutumbua usaha".

Maswali

i. Kifungu cha habari hapo juu kinahusu nini?
_____

ii. Neno mathalani kama ilivyotumika habari hii lina maana gani?_____

iii. Kisawe gani mwandishi angeweza kutumia badala ya neno muhali?_____

iv. Sawa haramu zilizotajwa katika habari juu ni zipi?
_____

v. Methali **"Mzaha mzaha mwisho hutumbua usaha " kama ilivyotmika katika kifungu cha habari inatoa funzo gani?_____**
_____

MKOA WA KAGERA

MTIHANI WA JARIBIO MWEZI- APRIL 2026

DARASA LA VII

KISWAHILI

Jina : _____ _____ ***Jina la Shule:*** _____

Mkoa: _____ ***Wilaya:*** _____

MAELEKEZO KWA MTAHINIWA:

1. Karatasi hii ina sehemu **A,B** na **C** yenye jumla ya maswali **saba**
2. Jibu maswali **yote** katika kila sehemu
3. Simu ya mkononi au kikokotozi haviruhusiwi kwenye chumba cha mtihani

Muda: Saa 1.30

SEHEMU A:(ALAMA 20)

UFAHAMU WA KUSIKILIZA, MACHAGUO NA KUOANISHA

1. Sikiliza kwa makini habari ifuatayo kisha andika jibu sahihi

i. Neno wahenga kama lilivyotumika kwenye habari lina maana gani? a) viongozi b) vijana c) wazee wa zamani wenye busara d) watoto e) viongozi wa dini [ ]

ii. Ualimu, udaktari ,uandishi kwa neno moja ni: [ ]
a) vijana b) wahenga c) wakulima d)watalamu e) wazalendo

iii. Mtu ambaye kazi yake ni kutibu wagonjwa hujulikana kama
a) mtaalamu b) mhenga c) kijana d) mfanyakazi e) daktari

iv. Kwa namna ulivyosikiliza habari hii kwa makini, kipi kinafaa kuwa kichwa cha habari ? a) bidii katika kazi
b) wahenga na biashara c) waalimu madaktari na wakulima
d) kilimo e) watumishi [ ]

v. Habari hii inasisitiza wanafunzi kusoma kwa bidii ili jamii ipate kitu gani a) wataalamu b) walimu c)madakteri d)wakulima wa kisasa e) mavuno ya kutosha [ ]

2. **Katika kipengele cha 1-x chagua jibu sahihi kisha andika herufiyakekatika kisanduku ulichopewa**

i. Watotowanapaswa kufundihwa tabia njema wangali[wakiwa bado wadogo maana wakikua ni vigumu kubadili tabia . Methali kati ya hizi zifuatazo inaendana na kauli hii? a) Asiyefunzwa na mamae hufunzwa na ulimwengu b) mwisho wa ngoma ni kelele c) samaki mkuje angali mbichi d) kua uyaone e) mchumia juani hulia kivulini

ii. Muundo wpi unakamilisha sentensi hii? Amina mnene__ Aisha a) kuliko b) labda c) swa d) mpaka e) ila[ ]

iii. Suzi alitengewa kitendawil na bibi yake akakitegua kusema"lumbwi" . Je kitendawili hicho ni kipi kati ya hivi vifuatavyo ? a) jinamizi laniita lakini silioni b) namkata hakatiki c) ukoo wetu haushiwi na safari d) kila niendapo ananifuata e) tajiri wa rangi [ ]

iv. Kitenzi kinachotokana na nomino onyo ni kipi? a) maonyo b)onyesho c)onya d) onyo e)kataza[ ]

v. Wanafunzi watoro **<u>wameadhibiwa</u>** Neno lililopigiwa mstari lipo katika kauli gani? a) ktendea b) kutenda c) kutendana d) kutendwa e) kutendewa [ ]

vi. Neno lipi kati ya hayayafuatayo kisawe cha neno sima? a) bokoboko b) ubwabwa c) ugali d) makande e) wali

vii. Katika neno wanalima kiambishi cha wakati ni kipi a) na b) li c) ma d) wa e) -ali [ ]

viii. Watu Wavivu hawawezi kufanikiwa maishani . Neno lipi katika sentensi hii limetumika kama kivumishi [ ] a) watu b) wavivu c) hawawezi d) kufanikiwa e) maishani

ix. Chumba maalumu cha kupumzika ndani ya nyumba kinaitwaje a) korido b) bwalo c) upenuni e) varanda [

x. Tulisafir salama salimini. Sentensi ipo katika nafsi ipi a) a) nafsi ya kwanza umoja b) nafsi ya kwanza wingi c) Nafsi ya tatu wingi d) nafsi ya pili wingi e) nafsi ya pili umoja [ ]

3. **Oanisha nahau kutoka katika orodha A na maana za nahau hizo katikaorodha B kwa kuandika herufi ya jibu sahihi katika nafasi ya majibu**

Orodha A

i. Teka nyara [ ]
ii. Kaa chonjo [ ]
iii. chanji mbuga [ ]
iv. kichwa maji [ ]
v. Nyooka wa ndumilakuwili [ ]

Orodha B

A: kimbia li kuepuka dulani
B: Toka mahali mbio
C: Mjinga
D: Chukua kama mateka
E: kasirika
F: Mtu hatari anayejifanya rafiki
G: wasiliana kwa ishara

SEHEMU B: (ALAMA 20)

4 Jibu vitenzi vitokanavyo na nomino zifuatazo

i. Tangazo_____
ii. Fikra _____
iii. Tafsiri_____
iv. Utatuzi_____
v. Shukurani_____

5. **Panga sentensi zifuatazo zilete mtiririko wenye mantiki kwa kuzipa herufi A, B, C, D, E**

i. Siku ile nzima walishina jijini Mwanza wakiangalia mambo mbalimbali [ ]

ii. Walipomaliza kuoneshwa hayo mwalimu na wanafunzi wake walimshukuru sana mtaalamu huyo [ ]

iii. Wenzake waliimsikiliza kwa makini wakasema ; kweli kusfiri ni kujifunza mengi [ ]

iv. Magonjwa aliwahadithia wenzake mambo aliyoyaona katika safari yake [ ]

V. Ilikuwa siku ya Ijumaa Mwalimu Mashaka pamoja na wanafunzi wa darasa la tatu wakiwemo Magonjwa walitembelea jiji la Mwanza

6. i. Alama _____ / _____ huwakilisha _____

ii. Kifaa kinachotumika kupima mkondo wa umeme ni _____

iii. Kifaa kipi hutumika kuingiza data kwenye kompyuta _____

iv. Taja aina mbili za kompyuta _____na _____

v. kifaa kinachotumika kukuza viumbe wadogo _____

SEHEMU C:Alama 10

7. Chunguza mchoro ufuatao kisha jibu maswali

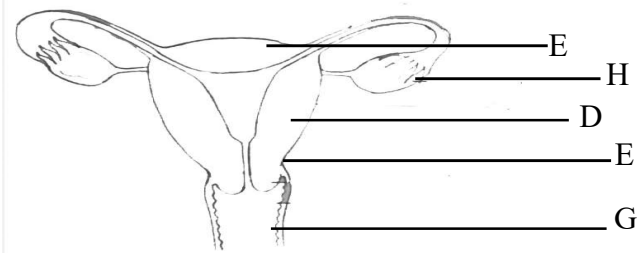

i. Mchoro juu huwakilisha mfumo gani? _____

ii. Sehemu ambayo utungisho wa mimba hufanyika huonyesha kwa herufi ipi?_____

iii. Herufi gani huwakilisha shingo ya kizazi _____

iv. Ni kazi ya herufi E katika mchoro_____

v Herufi D huwakilisha_____

MKOA WA KAGERA
MTIHANI WA JARIBIO MWEZI APRIL 2026
DARASA LA VII
SAYANSI NA TEKNOLOJIA

Jina : _____ ***Jina la Shule:*** _____

Mkoa: _____ ***Wilaya:*** _____

MAELEKEZO KWA MTAHINIWA:

1. Karatasi hii ina sehemu **A,B** na **C** yenye jumla ya maswali **nane**
2. Jibu maswali **yote** katika kila sehemu
3. Simu ya mkononi au kikokotozi haviruhusiwi kwenye chumba cha mtihani

Muda: Saa 1.30

SEHEMU A (ALAMA 20)

1. <u>Jibu maswali yote katika sehemu hii</u>

i. Mashine sahili ni muunganiko wa mashine zaidi ya
(a) moja(b)Tata (c) Zaidi ya moja(d)Nyepesi
(e) Hakuna jibu [ ]

ii. Mfano mmojawapo wa mashine sahili ni kama
(a) Mkasi(b)wembe(c)sindano(d)Baisikeli(e)Nyundo[

iii. Nyongo ni dutu yenye kemikaliambayo hutumika kubadili karatasi ya litmusi
(a)bluu kua nyekundu (b)Nyekundu kuwa bluu
(c)Njano kuwa nyekundu (d)Nyekundu [ ]

iv. Luzamana kuelea kwa vitu hutokaba na ku[ ]
(a)Umbolakitu(b)ncha ya kitu(c) uzito(d)Uwepesi(e)Tunu

v. _____ni aina ya mimea inayotoa mbegu ila haitoi maua
(a) mchungwa (b) mvinje(c) mahindi (d) mwembe
(e) mpapai [ ]

vi. Sehemu ya kiume ya ua huitwa (a) mtindo
(b)ovali (c) anther (d) stigima (e) ovari [ ]

vii. _____ni mnyama anayetaga mayai ndani ya maji na huishi nchi kavu (a) kobe (b)kobe wa majini (c) chura (d) mamba (e) samaki [ ]

viii. Antena kidoa hutumika zaidi kwenye vifaa kama (a)somu na kompyuta mpakato(b)Redio na waya(c) waya na kituni (d)Kituni (e) H 2 [ ]

ix. Sehemu ya mwili wa Samaki inayoisaidia kubadili uelekeo ndani ya maji huitwa (a)mstari wa neva (b) kichwa (c) jicho (d) mapezi (e) mkia [ ]

x. Makundi ya viumbe hai ni __(a) ng'ombe na binadamu (b) Wanyama na mimea (c)mimea na binadamu (d) Samaki na maji (e) bakiteria na Wanyama [ ]

2. **Oanisha kifungu A na B ili kupata maana kamili**

Kifungu A

i. Mbegu zenye ghala moja [ ]

ii. Gesi ambayo hutumika kuwashia moto [ ]

iii. Hutumika kuzima moto
Wanyama wanao kula nyama tu [ ]

iv. Mbao, karatasi mkaa [ ]

v. cherehani, baskeli, blenda [ ]

Kifungu B

A. Kan ivorasi

B. Viwakavyo

C. Oksijeni

D. Poda kavu

E. Monokotiledoni

F. Mashine sahili

3. **chagua jibu sahihi kutoka kwenye kisanduku kisha jaza nafasi zilizo wazi**

Insulin, hewa ya kabondayoksaidi, stomata, fotosthinsesis, petali

i. Sehemu gani ya ua huvutia mawakala wa uchavushaji_____

ii. Kitendo cha mmea kujitengenezea chakula hujulikana kama_____

iii. _____ni vitundu vidogo vidogo vinavyopatikana sehemu ya chini ya jani la mmea.

iv. Mmea hutegemea mnyama kwa _____

v. Homoni inayothibiti na kurekebisha kiwango cha sukari mwilini ni_____

SEHEMU B: Alama 20

4. Jaza nafasi zilizoachwa wazi

i. Sehemu inayosharabu mwanga wa jua katika jani ni_____

ii. Wanyama wanaokula majani tu huitwa
_____

iii. Kitendo cha mmea kupoteza maji kupitia majani huitwa
_____

5. i. Taja aina mbili za uzazi wa Wanyama
(a)_____(b)_____

nishati ya mwanga wa jua

ii. Maji+ kabondayoksaidi---- ---------? X + oksijeni . . . . . Umbijani/klorofili Herufi X huwakilisha
_____

7. **SECTION C: (10 Marks)**

Read carefully the passage given below and then answer the question i- v

In some culture girls are forced to marry at a very early age. Parents forced their daughters into marriage to get bride-price. Early marriages put girls at a great
risk. At that early age the girls are physically not mature enough to become mothers. Forced early marriages prevent the girls from enjoying their right to
childhood, education and to choose husband of their own age groups and choices. When the girls are forced to marry men who are older than themselves and not
of their choices they are likely to become widow at an early age. After their husbands have died the young widows are left with a hard of taking care of their
children.

QUESTIONS:

i. What is the purpose of the parents to force their daughters into early marriage? _____

ii. Who are forced to be marriage? _____

iii. What is the term used for the amount paid for marriage? _____

iv. A girl whose husband is dead is known as _____

v. What is the important right do girls miss at school when are forced into early marriage?_

KAGERA REGIONAL EXAMINATION

STANDARD VII-MARCH 2026

A S

ENGLISH LANGUAGE

Name: _____ ***School Name:*** _____

Region: _____ ***District:*** _____

INSTRUCTIONS:

1. This paper consists of section **A** , **B** and **C** with a total of seven questions
2. Answer all questions in each section
3. Cellular phones, and any unauthorized materials are not allowed in the assessment room.

Time: 1.30

SECTION A: (20 Marks)

1. Listen attentively to the passage read by the invigilator then answer the questions number i - v

i. Who is telling this story?
a. Doreen B. Clara C. Anna D. Mr. Kazi E. Michael[ ]

ii. According to the story read by invigilator how many friends does Clara have?a. Five B. three C. four D. six E. one[ ]

iii. In which school does Clara and her friends' study?
a. Seven B. three C. six D. four E. Muembeni [ ]

iv. Why does Mr. Kazi encourage his pupils to work hard?
a. because he loves his pupils
b. because he works hard
c. because he needs his pupils to perform well in exams
d. because he doesn't like noise [ ]
e. because he is a teacher at Muembeni primary school

v. What thing does Mr. Kazi dislike? [ ]
a. noise B. friends C. working hard D. workers E. our class

2. **Choose the words that complete the sentences by writing the letter of correct answer in the bracket provided.**

i. She injured himself a knife
A. by B. and C. with D. of E. at [ ]

ii. They failed the examination their teacher gave them enough exercises.A. if B. unless C. beside E. although [ ]

iii. Mr. John said "I bought a book for you" The indirect speech of this sentences is
A. Mr John said that he had bought a book for you
B. Mr. John said that he had bought a book for me
C. Mr . John said that he has bought a book for you
D. Mr. John said that he had bought a book for you
E. Mr. John said that he bought a book Amos [ ]

iv. You can use those pens _____ of them is working
A. Either B. neither C. neither of D. all E. both [ ]

v. He bought some meat, sugar and a _____ of soap
A. Bar B. lot C. crowd D. many E. Kilo [ ]

3. **Complete the following sentences by choosing a word from the box below to make the sentence meaningful.**

is, does, some, any, many

i. We wanted to prepare some ugali for the lunch. But there is no _____ flour in the bowl.

ii. These cars belong to my brother. There are _____ cars

iii. _____ of the parents attended the meeting at school on Friday.

iv. _____ the girl work hard in her lessons now days?

v. _____ there any pupil who didn't make correction? The teacher asked

4. **Match the meanings of the vocabulary from list A with the vocabulary in list B by writing a letter of correct an swer in brackets provided.No**

LIST A

i The home of a bird is [ ]
ii Another meaning for the word "purchase [ ]
iii The opposite of the word "expensive" [ ]
iv A child whose parents have died
v The words which have the same spellings and pronunciation, but different [ ]

List B

A. Orphan
B. Cheap
C. Synonym
D. Nest
E. Buy

SECTION B(marks 20)

5. Re-arrange the following sentences in a logical order by giving them letters A, B, C, D and E to make a meaningful paragraph.

i. At Mikumi they saw a lot of animals.. [ ]
ii. While in Mikumi they wrote about what they had seen there. [ ]
iii. Amani and his friends were excited about their trip to Mikumi adventure. [ ]
iv. When they returned home, they told their friends about their enjoyable trip. [ ]
v. Next trip they planned to go Ruaha National Park. [ ]

6. **FILL IN THE BLANKS**

i. Mr. Ndupe is best surgery doctor in East Africa. If he has born in Tanzania, his nationality will be _____
ii. The plural form of the word pedestrian is_____
iii. Chair, table, bed and cupboard can be called by a single word which is _____
iv. The male parent of your father is _____
v. Hassan is Neema's brother. Neema's daughter is Hassan's _____

SEHEMU C ;TAKWIMU NA MICHORO (ALAMA 10)

NA	SWALI	SEHEMU YA KAZI NA JIBU
7	Kielelezo kifuatacho kinaonyesha matumizi ya Mshahara wa Juma kwa mwezi. Ikiwa mshahara wake ni shilingi 720,000/= 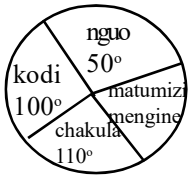 	
i)	Je, ni kiasi gani cha fedha hutumia kwa matumizi mengine?	
ii)	Tafuta wastani wa matumzi ya chakula na kodi.	
8.i	Unganisha majira ya nukta hizi C(1,-7), D(5,-7) E(7,-5) na F(3,-5) katika mtiririko CDEFC. Je, umbo gani limetokea?	
ii.	Tafuta eneo la umbo lifuatalo:- 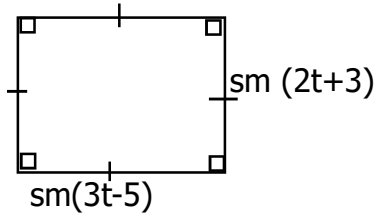 	
iii	Kokotoa ukubwa wa mcheduara ufuatao:- 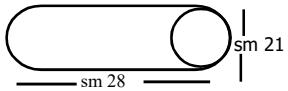 	

MTIHANI WA JARIBIO MKOA WA KAGERA

DARASA LA VII-MWEZI APRIL 2026

HISABATI

Jina : _____ ***Jina la Shule:*** _____

Mkoa: _____ ***Wilaya:*** _____

MAELEKEZO KWA MTAHINIWA:

1. Karatasi hii ina sehemu **A,B** na **C** yenye jumla ya maswali **nane**
2. Jibu maswali **yote** katika kila sehemu
3. Simu ya mkononi au kikokotozi haviruhusiwi kwenye chumba cha mtihani

Muda: Saa 1.30

NA	SWALI	SEHEMU YA KAZI NA JIBU
1.	SEHEMU A (ALAMA 10) KI HI SABATI	MATENDO YA
i.	874 + 3285 + 89=	
ii.	10007 – 9999 =	
iii.	49 x 864 =	
iv.	13995 ÷ 45 =	
v.	$3\,{}^{3}/_{5} + 2^{2}/_{3}$ =	
vi.	$6^{2}/_{3} \times 3^{1}/_{5}$ =	
vii.	Kuna 41 ngapi katika $^{41}/_{3}$?	
viii.	1.16 ÷ 0.032 =	
ix.	27 x 2 - 4 + 15 =	
x. -	16 + (-3 x 5) =	

NA	SWALI	SEHEMU YA KAZI NA JIBU
2 i.	SEHEMU B: MAFUMBO (Alama 30) Tafuta jumla ya thamani ya tarakimu 6 na 8 katika namba 485630	
ii.	Tanzania ilifanya uchaguzi mkuu wa mwisho mwaka 2025, ikiwa Ambwene alikuwa na umri wa miaka 26. Andika mwaka wa kuzaliwa Ambwene kwa namba za kirumi.	
iii.	Juma aliambiwa na Mwalimu wake atafute zao la namba 425.7 na 5.83. Je, alipata jibu gani sahihi?	
iv.	Kiberiti kimoja kina njiti 85. Je, viberiti 14250 vya aina hiyo vitakuwa na jumla ya njiti ngapi?	
v.	Ni namba gani ya desimali yenye thamani sawa na 43.4%?	
vi.	Gawanya tani 15 kg 245 na gram 26 kwa 2	
3 i.	Kata ya Malangali ina jumla mifugo Laki mbili mia tano na tano. Andika idadi hiyo kwa tarakimu za kawaida.	
ii.	Kijiji fulani kilivuna tani 864516 za mahindi, andika uzito huo katika maelfu yaliyo karibu.	
iii.	Watu 60 walitumia lita 25 na mililita 750 za maji kila mmoja. Je, jumla wote walitumia lita ngapi za maji	

NA	SWALI	SEHEMU YA KAZI NA JIBU
4. i.	Vyumba vya madarasa katika shule ya msingi Mwenge viliandikwa namba 1, 5, 10, ___, 23. Je, chumba cha nne cha shule hiyo kiliandikwa namba gani?	
ii.	Mchezo wa mpira wa miguu ulianza saa 9:45 alasiri na kumalizika baada ya saa 1 dk 30. Je, ulimalizika saa ngapi katika mtindo wa saa 24?	
iii.	Ipi kubwa kati ya namba zifuatazo $^{11}/_{2}$ na 1.25?	
5. i.	Bei ya meza ni shilingi 250,000/= ikiwa Alex alinunua meza hiyo Kwa shilingi 150,000/=. Alipunguziwa kiasi gani cha fedha katika asilimia?	
ii.	Lori moja lilibeba tani 15.2 za mchele. Uzito huo ulikuwa sawa na kilogrami ngapi?	
iii.	Kati ya mwaka 2020 na 2022 upi ni mwaka mrefu?	
6. i.	Tafuta thamani ya X katika mlinganyo ufuatao:- $2(3x - 2) = x + 6$	
ii.	Umri wa James ni miaka 9 pungufu ya umri wa Abdul, iwapi jumla ya umri wao ni miaka 29. Tafuta umri wa James.	
iii.	Iwapo $m = 4$ na $n = 2$ Tafuta thamani ya $\frac{m^2 n - n}{n}$	